NOM: _____

MON CAHIER DE CONFINEMENT

(POUR LES PLUS GRANDS)



#ÇAVABIENALLER

En attendant qu'on se revoit, voici quelques activités pour te garder occupé !

©MME ARIANE

DÉFI # 1 : CHASSE AU TRÉSOR

À FAIRE POUR LE: _____

Trouve un objet dans ta maison …

1. Qui est de couleur bleue :

_____

2. Qui commence par la lettre P :

_____

3. Qui est en forme de cube ou de prisme:

_____

4. Qui commence par la lettre T :

_____

5. Qui est de couleur mauve :

_____

6. Qui est en forme de cylindre :

_____

7. Qui commence par la lettre L :

_____

8. Qui se mesure en cm:

_____

©MME ARIANE

9. Qui sert à faire du ménage:

_____

10. Qui est mou:

_____

11. Qui est lourd:

_____

12. Qui est vert:

_____

13. Qui a des motifs:

_____

14. Qui est important à tes yeux:

_____

15. Qui roule:

_____

16. Qui n'a pas de "a" dans son nom:

_____

DÉFI RÉUSSI ! ☺

©MME ARIANE

DÉFI # 2 : COMPTER LES ARCS-EN-CIEL

À FAIRE POUR LE: _____

Prends une marche dans ton quartier et compte le nombre d'arcs-en-ciel dans les fenêtres.
Encercle ou colorie un arc-en-ciel chaque fois que tu en vois un!



©MME ARIANE

DÉFI # 3 : CHASSE À L'EXTÉRIEUR

À FAIRE POUR LE: _____

Sors à l'extérieur.
Coche lorsque tu as trouvé chaque objet suivant.
Tu peux même les prendre en photo pour nous les montrer ensuite !

❑ TROUVÉ	❑ TROUVÉ	❑ TROUVÉ	❑ TROUVÉ
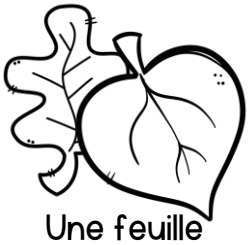 Une feuille	Une branche	Du gazon	De la terre
❑ TROUVÉ	❑ TROUVÉ	❑ TROUVÉ	❑ TROUVÉ
Une roche	 Un insecte	 De l'eau	Un oiseau
❑ TROUVÉ	❑ TROUVÉ	❑ TROUVÉ	❑ TROUVÉ
Un nuage	 Une fleur	Un écureuil	Un arbre
❑ TROUVÉ	❑ TROUVÉ	❑ TROUVÉ	❑ TROUVÉ
Un buisson	Un nid	Un panneau d'arrêt	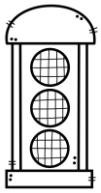 Un feu de circulation

©MME ARIANE

DÉFI # 4 : LES ADRESSES

À FAIRE POUR LE: _____

Regarde les adresses des maisons de ton quartier
Trouve une adresse qui correspond à chaque critère
Exemple: La somme donne 10. L'adresse 244 = 2+4+4 = 10

Ton adresse: _____
Trouve une adresse qui…

❑ TROUVÉ	❑ TROUVÉ	❑ TROUVÉ	❑ TROUVÉ
_____ La somme des chiffres donne 10	_____ est paire	_____ est impaire	_____ est plus grande que la tienne
❑ TROUVÉ	❑ TROUVÉ	❑ TROUVÉ	❑ TROUVÉ
_____ est plus petite que la tienne	_____ La somme des chiffres donne 18	_____ avec tous ses chiffres identiques	_____ La somme des chiffres donne 20
❑ TROUVÉ	❑ TROUVÉ	❑ TROUVÉ	❑ TROUVÉ
_____ Qui a un 4 à la position des dizaines	_____ Qui a un 9 à la position des unités	_____ La somme des chiffres donne 12	_____ Qui a un 7 à la position des unités
❑ TROUVÉ	❑ TROUVÉ	❑ TROUVÉ	❑ TROUVÉ
_____ Qui a un 6 à la position des centaines	_____ Qui a un 5 à la position des unités	_____ La somme des chiffres donne 24	_____ Qui a un 1 à la position des centaines

©MME ARIANE

DÉFI # 5 : LA MESURE

À FAIRE POUR LE: _____

Choisis la bonne unité de mesure pour chaque objet de ta maison.

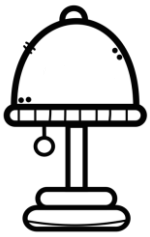

- ❑ cm
- ❑ dm
- ❑ m

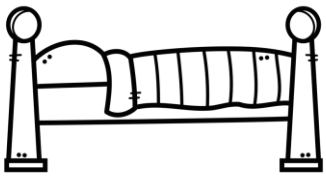

- ❑ cm
- ❑ dm
- ❑ m

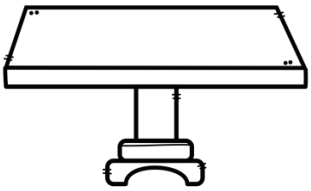

- ❑ cm
- ❑ dm
- ❑ m

- ❑ cm
- ❑ dm
- ❑ m

- ❑ cm
- ❑ dm
- ❑ m

- ❑ cm
- ❑ dm
- ❑ m

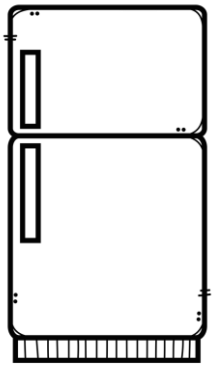

- ❑ cm
- ❑ dm
- ❑ m

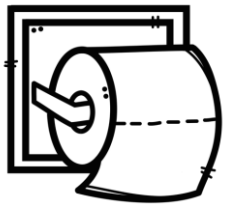

- ❑ cm
- ❑ dm
- ❑ m

- ❑ cm
- ❑ dm
- ❑ m



- ❑ cm
- ❑ dm
- ❑ m

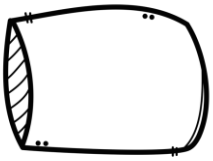

- ❑ cm
- ❑ dm
- ❑ m

- ❑ cm
- ❑ dm
- ❑ m

©MME ARIANE

DÉFI # 5.1 : LA MESURE

À FAIRE POUR LE: _____

Mesure les différents objets suivants dans ta maison.
Si tu n'as pas de ruban à mesurer, choisis une unité de mesure de ton choix.
Par exemple, tu peux mesurer l'objet avec un trombone et écrire combien il t'a fallu de trombones en tout!

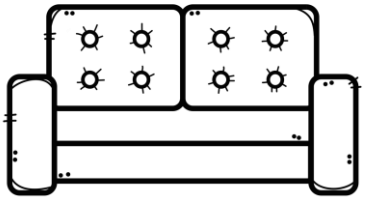

Mon divan mesure: _____

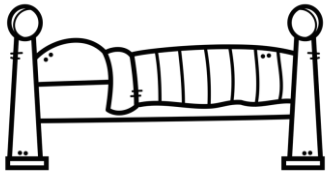

Mon lit mesure: _____

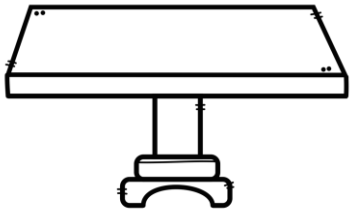

Ma table mesure: _____

Mon four mesure: _____



Ma poubelle mesure: _____

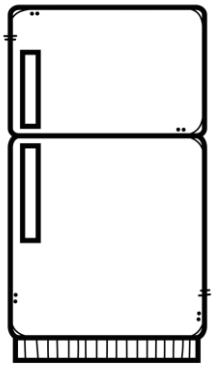

Mon réfrigérateur mesure: _____

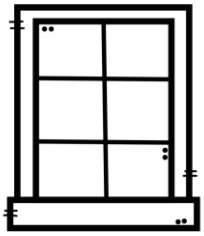

Ma fenêtre mesure: _____



Ma chaise mesure: _____

Ma toilette mesure: _____

©MME ARIANE

DÉFI # 6 : LE NOM DES RUES

À FAIRE POUR LE: _____

Observe le nom des rues de ton quartier.
Trouve un nom de rue qui...

NOM DE LA RUE

- Contient 3 voyelles
- Commence par une consonne
- Contient entre 6 et 10 lettres
- Commence par une voyelle
- Est composé (deux mots)
- Est sens unique

©MME ARIANE

DÉFI # 7 : LA CIRCULAIRE

À FAIRE POUR LE: _____

Prends une circulaire d'épicerie et choisis 4 items. Découpe-les et colle-les ici. Ensuite, calcule combien te coûterait ta facture
Si tu n'en as pas chez toi, utilise celle de la prochaine page.

	ITEM 1	ITEM 2	ITEM 3	ITEM 4
IMAGE	COLLER ICI	COLLER ICI	COLLER ICI	COLLER ICI
PRIX				
TOTAL	_____ $			

©MME ARIANE

DÉFI # 7 : LA CIRCULAIRE

©MME ARIANE

DÉFI # 7 : LA CIRCULAIRE

©MME ARIANE

DÉFI # 8 : LES TOURS

À FAIRE POUR LE: _____

Trouve les objets suivants dans ta maison et fais une tour avec eux ! Colorie le bon nombre d'objets pour chaque tour.
Prends ta tour en photo si tu veux nous la montrer!
Exemple : J'ai trouvé 3 boites de mouchoirs. Voici ma tour:

Coussins	Mouchoirs	Papier de toilette

©MME ARIANE

DÉFI # 9 : QUE FAIT TON ENSEIGNANT (E)?

À FAIRE POUR LE: _____

Dessine ce que tu penses que ton enseignant (e) fait pendant le confinement.
Écris quelques phrases pour expliquer.

©MME ARIANE

DÉFI # 10 : L'INVENTAIRE DE VÊTEMENTS

À FAIRE POUR LE: _____

Dénombre tes vêtements selon la catégorie.

Combien as-tu de…

	Quantité
 Chandails ?	
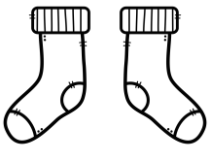 Paires de bas ?	
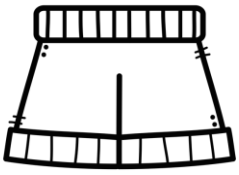 Shorts ?	
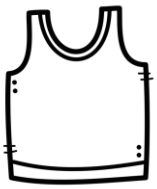 Camisoles ?	
vestes ?	
 Pantalons ?	

	Quantité
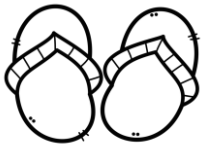 sandales ?	
 robes ?	
T-shirts ?	
jupes ?	
maillots ?	
chaussures ?	

©MME ARIANE

DÉFI # 11 : LES CHANSONS FRANCOPHONES

À FAIRE POUR LE: _____

Écoute les chansons francophones proposées. Tu peux cliquer sur le titre pour la trouver sur *Youtube*.
Choisis ta préférée et explique pourquoi.

Chansons:

- Coton ouaté de Bleu Jeans Bleu
- Hawaïenne des Trois Accords
- Ouvre tes yeux, Simon des Trois Accords
- Montréal d'Ariane Moffat
- L'écrivain d'Alexandre Poulin
- On va s'aimer encore de Vincent Vallières
- Comme des enfants de Coeur de pirate
- Alors on danse de Stromae
- Comme avant de Marie-Mai
- Les étoiles filantes des Cowboys fringants
- Toi + moi de Grégoire
- Je vole de Michel Sardou, interprétée par Louane
- Si jamais j'oublie de Zaz

Ma chanson préférée est _____

Parce que :

_____

_____

_____

_____

_____

_____

_____

©MME ARIANE

DÉFI # 12 : LA RECETTE

À FAIRE POUR LE: _____

Avec tes parents, fais une recette de ton choix.
Note les ingrédients et les étapes et partage-la avec ta classe par courriel ou vidéoconférence.

Ingrédients:

- _____
- _____
- _____
- _____
- _____
- _____
- _____
- _____
- _____
- _____

Étapes:

1) _____
2) _____
3) _____
4) _____
5) _____
6) _____
7) _____
8) _____
9) _____
10) _____

Dessine le résultat final.

©MME ARIANE

ACTIVITÉS DE RÉVISION ET D'ENRICHISSEMENT

©MME ARIANE

Colorie selon la légende.



Colorie selon la légende

12 = jaune
15 = bleu
18 = vert

20 = rouge
24 = mauve
25 = rose

30= orange
32 = gris
40 = noir

©MME ARIANE

Conjugue les verbes suivants à l'imparfait.

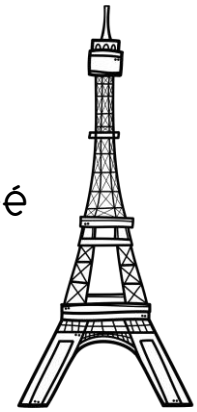

1. Il (aimer) _____ patiner avant de se blesser.
2. Tu (aller) _____ chez tes grands-parents l'été dernier.
3. Nous (finir) _____ nos devoirs hier soir.
4. La semaine passée, je (dire) _____ au revoir à mes amis.
5. Il y a un an, vous (être) _____ en vacances en France.
6. Durant la fin de semaine, elles (avoir) _____ un cours de danse.

©MME ARIANE

Souligne le noyau de chaque groupe du nom en gras.

1. **Les délicieuses fraises** sont en rabais cette semaine.
2. **Ces énormes légumes verts** seront parfaits pour le souper.

3. **La gentille caissière souriante** m'a donné un sac réutilisable pour mes achats.
4. **Mes bananes mûres** seront parfaites pour mon pain aux bananes.
5. **Le petit marché** qui est près de chez moi propose plusieurs choix de fruits et de légumes variés.

©MME ARIANE

Relie les fractions équivalentes.

$\frac{1}{2}$ 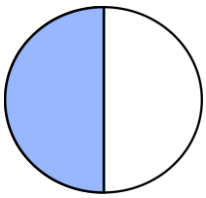

$\frac{1}{3}$ 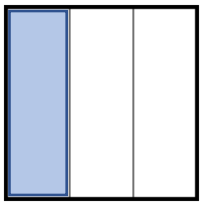

$\frac{1}{4}$ 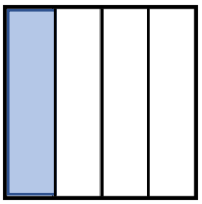

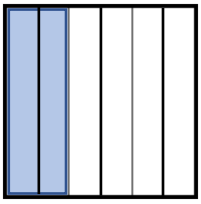 $\frac{2}{6}$

 $\frac{3}{12}$

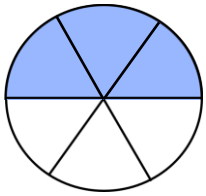 $\frac{3}{6}$

©MME ARIANE

Colorie selon les consignes.

Magalie est à l'épicerie avec sa mère. Elle porte un chandail mauve. Les manches rayées sont roses et blanches. Sa jupe est verte et les pois sont jaunes. Elle a mis ses bottes brunes préférées, car il fait très froid dehors.

Sa mère a fait une couette avec ses cheveux blonds.
Elle a utilisé un élastique rouge.

©MME ARIANE

Noémie a acheté du popcorn pour ses élèves. Pour que ce soit juste, elle va le diviser également. Il y a 425 grains de popcorn et elle a 5 élèves. Combien de grains de popcorn chacun aura-t-il?



Chaque élève aura _____ grains.

©MME ARIANE

À l'épicerie, la caissière te dit que tes achats coûtent 34,75$. Voici l'argent que tu lui donnes.
As-tu assez d'argent pour tout payer? Si non, combien t'en manque-t-il?

- ❑ Oui, j'ai assez d'argent.
- ❑ Non, il me manque _____ $.

©MME ARIANE

Conjugue les verbes dans les phrases suivantes au présent. Écris le bon pronom au dessus-du GN.

1. Les fraises rouges (être) _____ délicieuses .

2. Ces kiwis (aller) _____ dans le bol sur la table.

3. Magalie (acheter) _____ des légumes pour sa salade..

4. Alice et moi (aimer) _____manger du pain brun.

©MME ARIANE

Julie a acheté 12 pommes. Elle veut en utiliser le **tiers** pour faire une tarte. Combien de pommes utilisera-t-elle pour sa tarte?



Julie utilisera _____ pommes pour sa tarte.

©MME ARIANE

Souligne le sujet dans les phrases suivantes.

1. Léa adore le macaroni au fromage, mais sa mère rajoute toujours des carottes à l'intérieur.

2. L'épicerie du coin est géniale parce qu'on y retrouve tout plein d'aliments.



3. Il mange un potage au brocoli.

4. Les croissants viennent tout juste de sortir du four.

©MME ARIANE

Voici le plan de l'épicerie.
Quelle est l'aire de cette épicerie ?

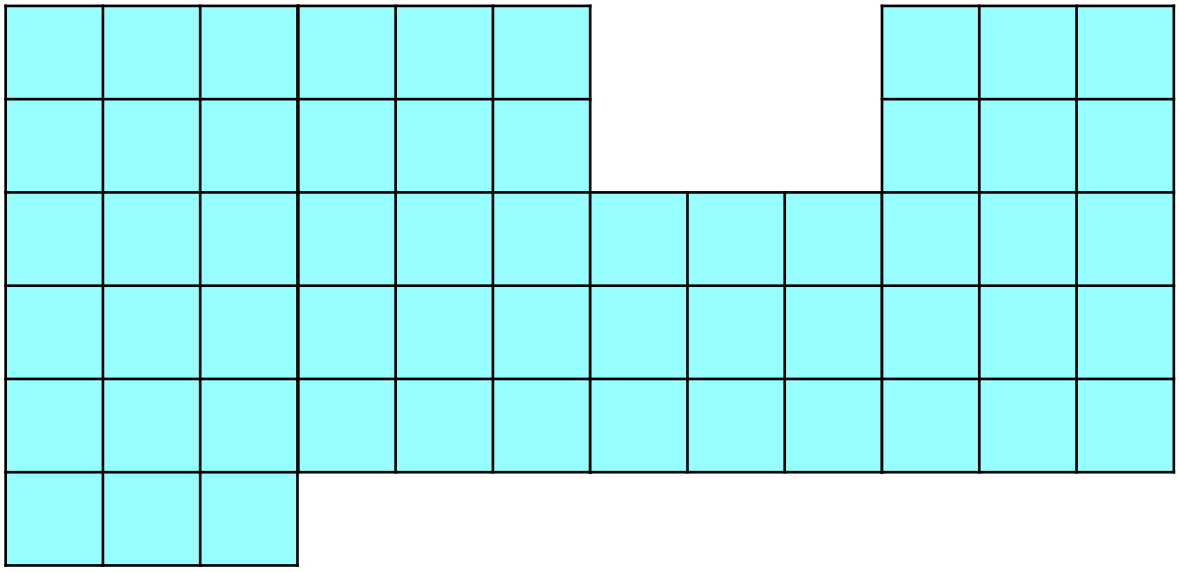

L'épicerie a une aire de _____ m^2

©MME ARIANE

M. Verdure veut se construire un potager. Par contre, il doit le clôturer, car sinon son chien ira creuser dans la terre.
Combien de mètres de clôture aura-t-il besoin pour son potager?

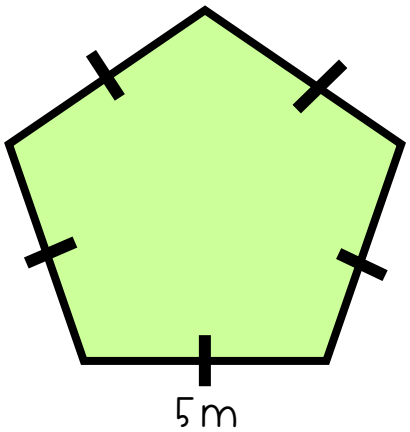

M. Verdure aura besoin de _____ m de clôture.

©MME ARIANE

Chaque jour, Étienne mange 7 fruits et 4 légumes.
Combien aura-t-il mangé de fruits et de légumes après 5 jours ?



Étienne aura mangé ____ fruits et ____ légumes après 5 jours.

©MME ARIANE

Mathieu se lave les mains 12 fois par jour. Combien de fois se sera-t-il lavé les mains dans 7 jours?

Il se lavera les mains _____ fois en 7 jours.

Accorde les groupes du noms correctement.

1. Élodie a invité sa meilleur__ ami__ à venir dîner dans sa joli__ maison.
2. Luc a acheté plusieurs légume__ vert__ pour faire une salade.
3. Les gentil__ élève__ écoutent les histoire__ attentivement.
4. Cet__ recette délicieu__ est la préféré__ de ma grand-mère.

©MME ARIANE

CRÉDITS

L'utilisation de cette ressource est à l'usage exclusif de la personne ayant acheté les droits. Toute redistribution ou reproduction est interdite. La vente ou le partage de ce produit sur internet est également interdit.

Si vous avez des questions, n'hésitez pas à m'écrire.

Suivez-moi sur instagram : mme.ariane
Suivez-moi sur Facebook: Mme Ariane

Chirp Graphics

EDUCLIPS Clip Art

CREATIVE Clips KRISTA WALLDEN

Creating 4 the CLASSROOM Clipart

mollie jo FONTS

Artifex Graphics

Amy Groesbeck FONTS COMMERCIAL LICENSE