1

Trouve le périmètre et l'aire de cette figure.

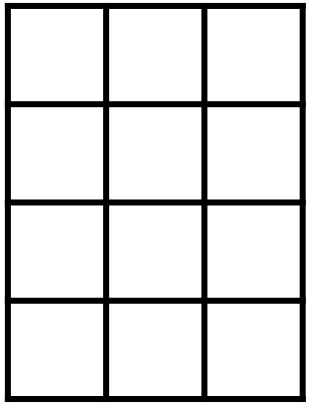

Périmètre: _____ Aire: _____

2

Trouve le périmètre et l'aire de cette figure.



Périmètre: _____ Aire: _____

3

Trouve le périmètre et l'aire de cette figure.

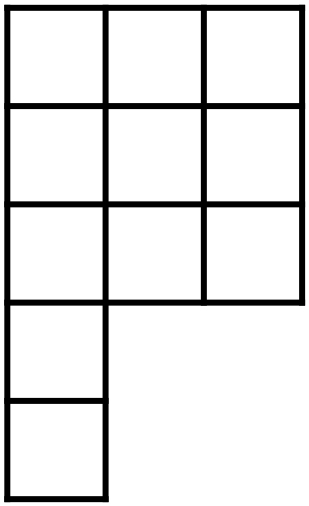

Périmètre: _____ Aire: _____

4

Trouve le périmètre et l'aire de cette figure.

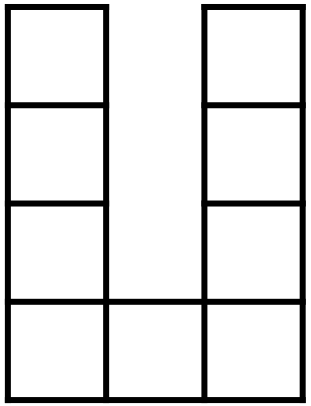

Périmètre: _____ Aire: _____

5

Trouve le périmètre et l'aire de cette figure.

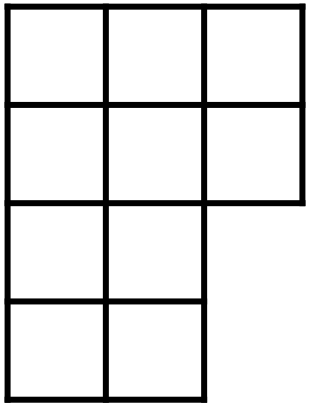

Périmètre: _____ Aire: _____

6

Trouve le périmètre et l'aire de cette figure.

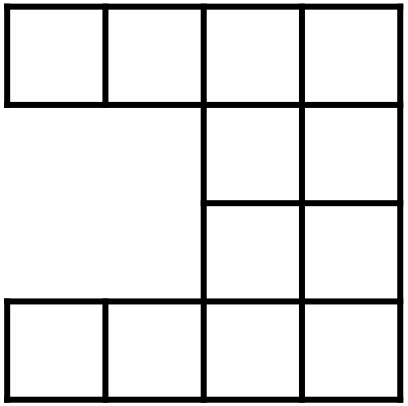

Périmètre: _____ Aire: _____

1

Trouve le périmètre et l'aire de cette figure.

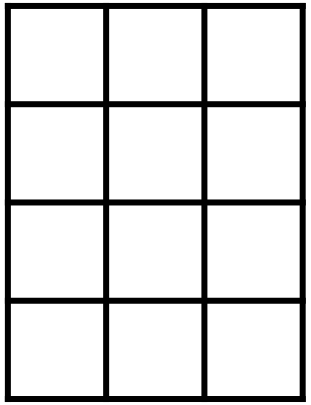

Périmètre: 14 Aire: 12

2

Trouve le périmètre et l'aire de cette figure.



Périmètre: 20 Aire: 13

3

Trouve le périmètre et l'aire de cette figure.

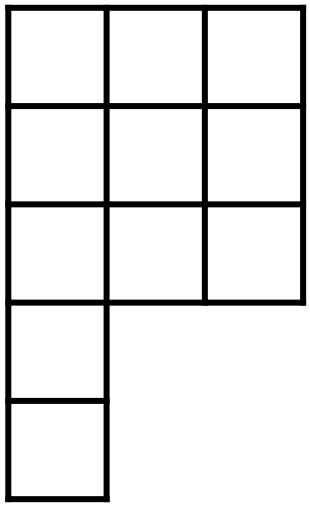

Périmètre: 16 Aire: 11

4

Trouve le périmètre et l'aire de cette figure.

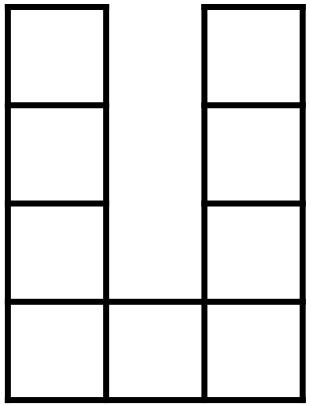

Périmètre: 20 Aire: 9

5

Trouve le périmètre et l'aire de cette figure.

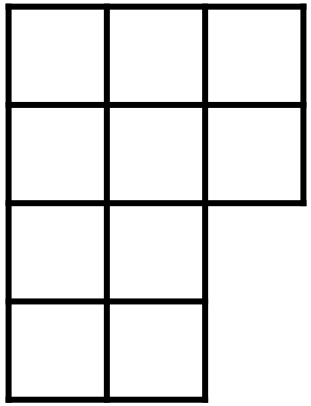

Périmètre: 14 Aire: 10

6

Trouve le périmètre et l'aire de cette figure.

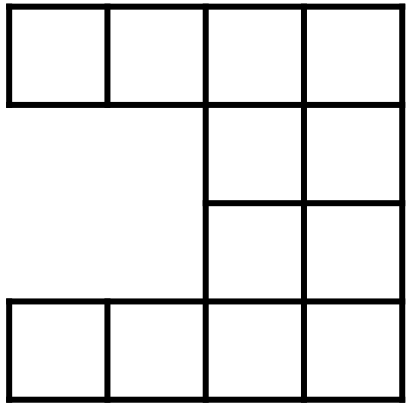

Périmètre: 20 Aire: 12

7

Trouve le périmètre et l'aire de cette figure.

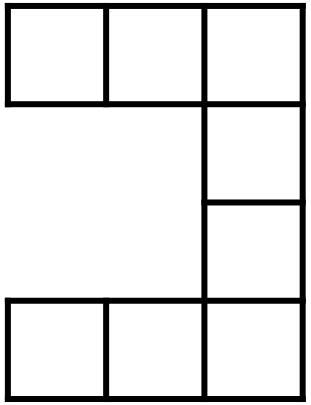

Périmètre: _____ Aire: _____

8

Trouve le périmètre et l'aire de cette figure.

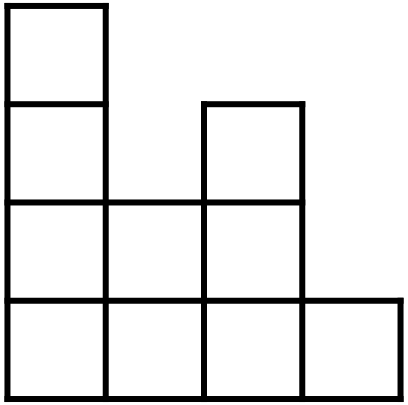

Périmètre: _____ Aire: _____

9

Trouve le périmètre et l'aire de cette figure.

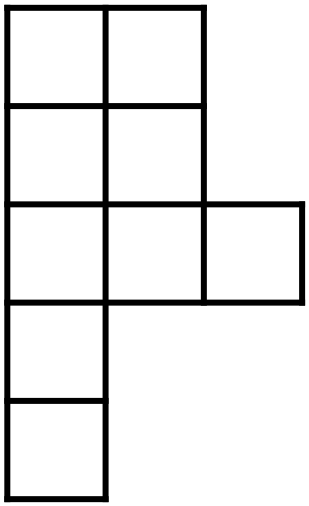

Périmètre: _____ Aire: _____

10

Trouve le périmètre et l'aire de cette figure.

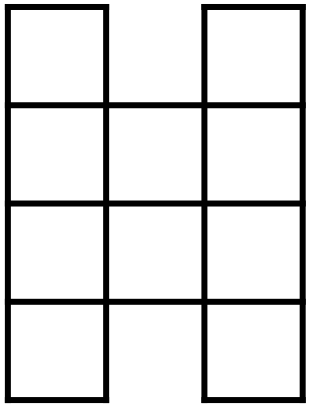

Périmètre: _____ Aire: _____

11

Trouve le périmètre et l'aire de cette figure.



Périmètre: _____ Aire: _____

12

Trouve le périmètre et l'aire de cette figure.

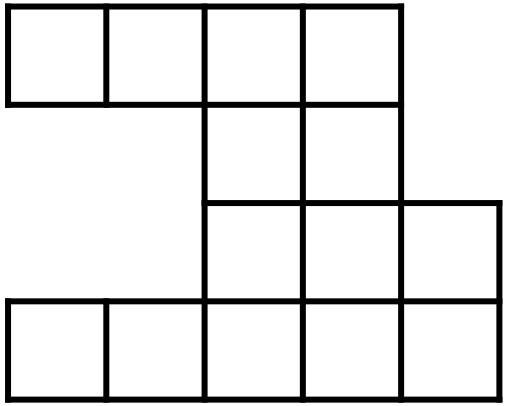

Périmètre: _____ Aire: _____

7

Trouve le périmètre et l'aire de cette figure.

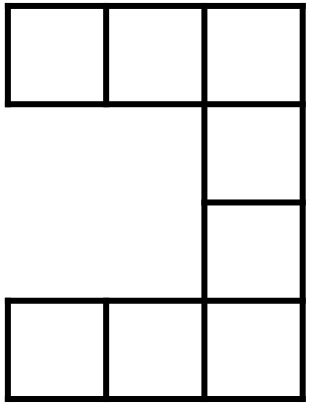

Périmètre: 18 Aire: 8

8

Trouve le périmètre et l'aire de cette figure.

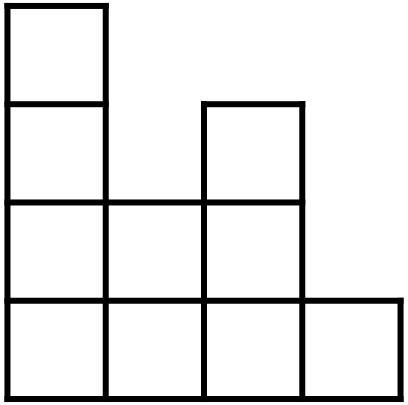

Périmètre: 18 Aire: 10

9

Trouve le périmètre et l'aire de cette figure.

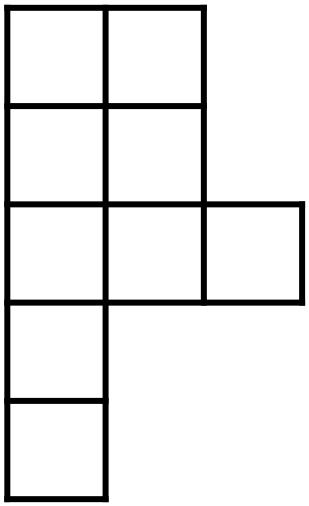

Périmètre: 16 Aire: 9

10

Trouve le périmètre et l'aire de cette figure.

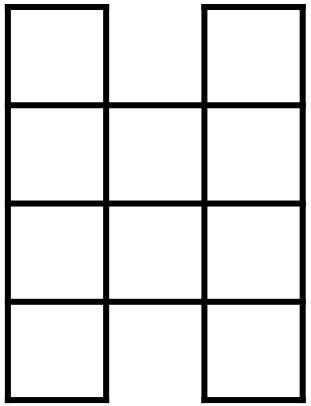

Périmètre: 18 Aire: 10

11

Trouve le périmètre et l'aire de cette figure.



Périmètre: 14 Aire: 8

12

Trouve le périmètre et l'aire de cette figure.

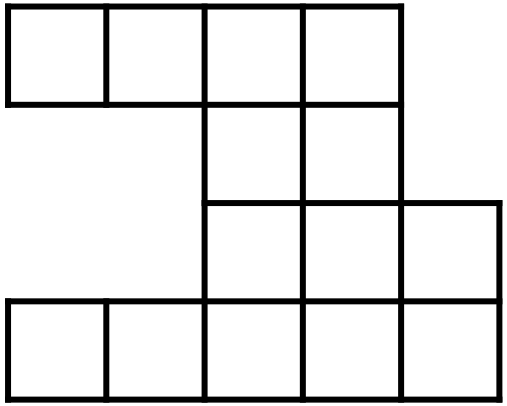

Périmètre: 22 Aire: 14

13

Trouve le périmètre et l'aire de cette figure.

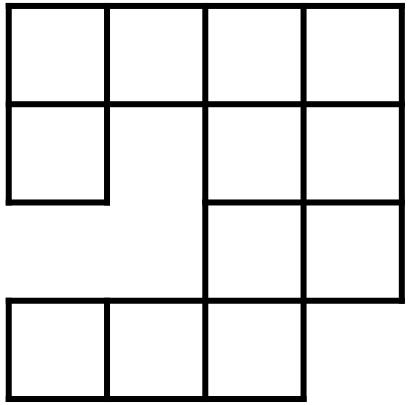

Périmètre: _____ Aire: _____

14

Trouve le périmètre et l'aire de cette figure.



Périmètre: _____ Aire: _____

15

Trouve le périmètre et l'aire de cette figure.

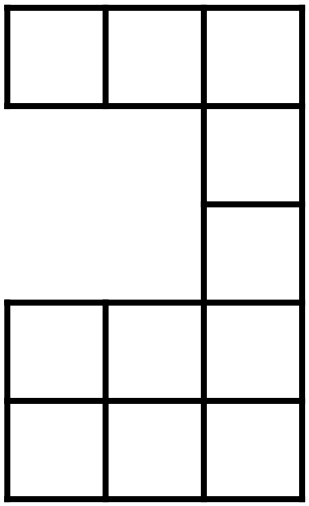

Périmètre: _____ Aire: _____

16

Trouve le périmètre et l'aire de cette figure.

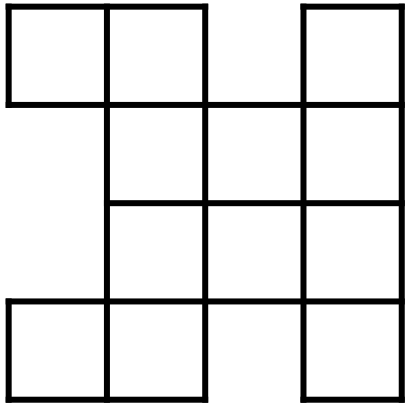

Périmètre: _____ Aire: _____

17

Trouve le périmètre et l'aire de cette figure.

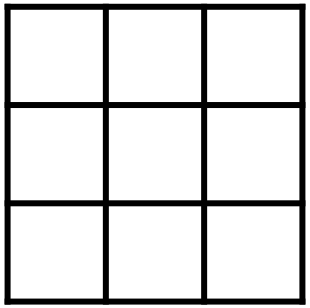

Périmètre: _____ Aire: _____

18

Trouve le périmètre et l'aire de cette figure.

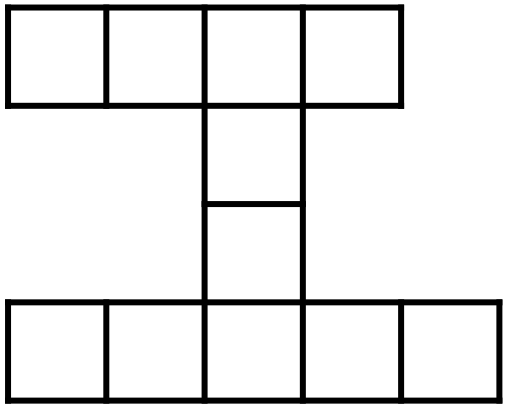

Périmètre: _____ Aire: _____

13

Trouve le périmètre et l'aire de cette figure.

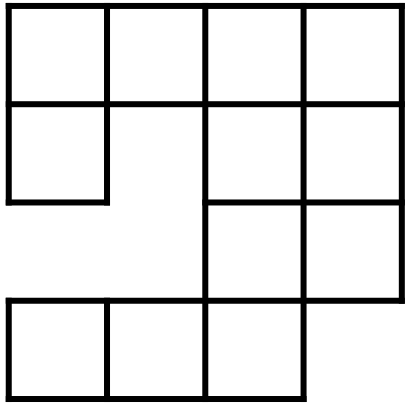

Périmètre: 22 Aire: 12

14

Trouve le périmètre et l'aire de cette figure.



Périmètre: 16 Aire: 10

15

Trouve le périmètre et l'aire de cette figure.

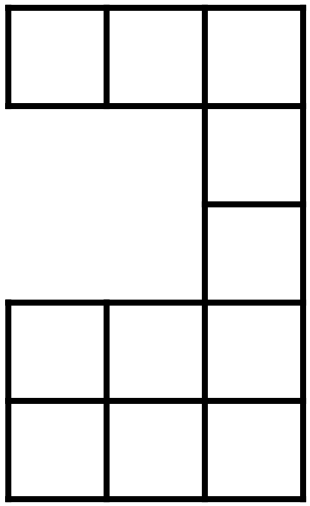

Périmètre: 20 Aire: 11

16

Trouve le périmètre et l'aire de cette figure.

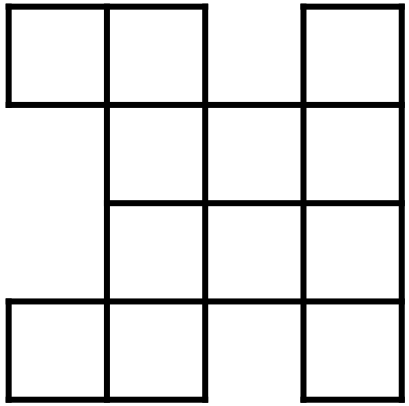

Périmètre: 22 Aire: 12

17

Trouve le périmètre et l'aire de cette figure.

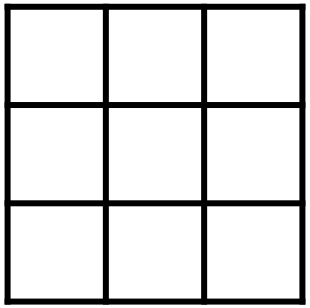

Périmètre: 12 Aire: 9

18

Trouve le périmètre et l'aire de cette figure.

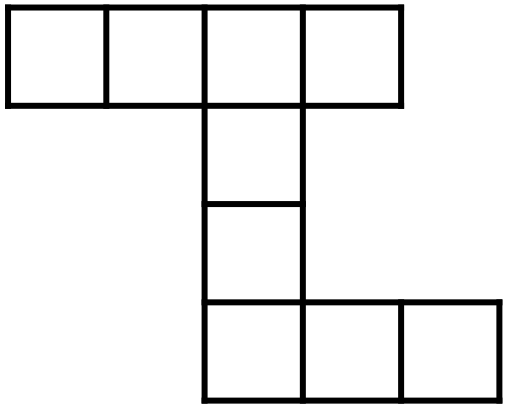

Périmètre: 20 Aire: 9